desarrolla
y evalúa
tu competencia
matemática

mate practic

9

PRIMARIA

NÚMEROS HASTA EL 99 999 • TABLA DEL 9 • DIVISIÓN • SUMA Y RESTA DE FRACCIONES
LITRO, QUILOGRAMO Y AMPLITUD DE ÁNGULOS • SUCESOS NUMÉRICOS Y NO NUMÉRICOS

Casals

Ángel Alsina

1. La lotería nacional

La lotería nacional es un juego público en el que se venden muchos décimos y se premian algunos con diversas cantidades de dinero.



• **1.** Escribe los números de los décimos de lotería anteriores que son menores que 8000.

Puntuación

•• **2.** Los premios se obtienen a partir de números que se sacan de un bombo. Observa el número premiado y escríbelo con letras.

Decenas de millar (DM)	Unidades de millar (UM)	Centenas (C)	Decenas (D)	Unidades (U)
1	3	2	4	5

Puntuación

Puntuación máxima: • Conozco: 1 punto •• Empleo: 2 puntos ••• Razono: 3 puntos

3. Compara los números de cada par de décimos con los signos < y >.



Puntuación

4. Ordena y escribe los números de estos décimos de menor a mayor: 65784, 3256, 30000, 9999 y 80120.

Puntuación

5. En un sorteo sale premiado un número que es mayor que 6 decenas de millar, menor que 8 decenas de millar y la suma de sus cifras es 12. Rodéalo:

Puntuación

2. El señor de los anillos

El señor de los anillos es una novela de fantasía épica escrita por J. R. R. Tolkien.

• **1.** Los miembros que forman la Comunidad del Anillo son 9: 4 hobbits, 2 hombres, 1 enano, 1 elfo y 1 mago. Pinta la multiplicación que correspondería a dos comunidades del anillo.

9 × 1 = 9	9 × 2 = 18	9 × 3 = 27	9 × 4 = 36	9 × 5 = 45
9 × 6 = 54	9 × 7 = 63	9 × 8 = 72	9 × 9 = 81	9 × 10 = 90

Puntuación

•• **2.** Frodo Nueve Dedos es uno de los personajes de la novela. Lo llaman así porque tiene 9 dedos. Representa con líneas cuántos dedos tendrían 3 personajes como Frodo.

Puntuación

Puntuación máxima: • Conozco: 1 punto •• Empleo: 2 puntos ••• Razono: 3 puntos

3. Los espectros de los anillos también son 9. Pinta el resultado que correspondería a 2 grupos de espectros.

9	27	45	63	81
18	936	54	72	90

Puntuación

4. Observa la caja con los 9 anillos. ¿Cuántos anillos habría en 10 cajas?

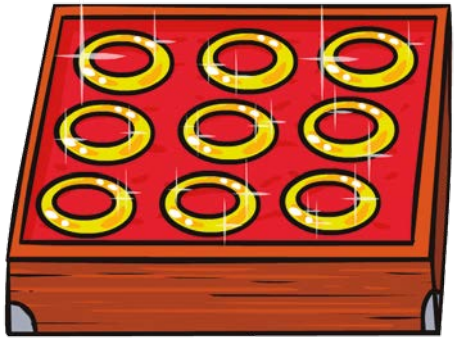

Puntuación

5. Si en la Comunidad del Anillo tuvieran 27 anillos forjados, ¿cuántas cajas de 9 anillos necesitarían para guardarlos?

Puntuación

mate practic





Nuestros objetivos

- Que el alumno sea matemáticamente competente, es decir, que sea capaz de utilizar sus conocimientos y destrezas matemáticas para enfrentarse a los desafíos de la vida real.
- Diagnosticar, mejorar y evaluar los contenidos, las habilidades y la competencia matemática según los parámetros curriculares e internacionales del TIMSS y la NCTM.

Este método ofrece

- 18 cuadernos secuenciados por niveles, de 6 a 11 años, para trabajar las matemáticas de forma globalizada a partir de contextos reales.
- Un programa de tareas que abarca todos los bloques temáticos y las habilidades matemáticas para desarrollar la competencia matemática.

En matepractic.com

- Prueba de diagnóstico para conocer el nivel de partida más aconsejado.
- Solucionarios para corregir y puntuar las tareas.
- Hojas de cálculo para introducir las puntuaciones y conocer los logros del alumno.
- Guía didáctica.

ADQUIRIENDO LA LICENCIA DIGITAL

Acceso a todos los niveles.

Evaluación automática.

Adaptación al ritmo de aprendizaje.

Casals

9 788421 858240